Комитет по образованию и делам молодежи Администрации Михайловского района Алтайского края

ВСЕРОССИЙСКАЯ ОЛИМПИАДА ШКОЛЬНИКОВ ПО ОСНОВАМ БЕЗОПАСНОСТИ ЖИЗНЕДЕЯТЕЛЬНОСТИ

(ШКОЛЬНЫЙ ЭТАП)

Пупкин

«____» _____ 2019 г.

ТЕОРЕТИЧЕСКИЙ ТУР

5 - 6 классы

Впишите свой код/шифр		
	603	

Уважаемый участник Олимпиады!

При выполнении заданий теоретического тура Вам предстоит выполнить определенную работу, которую лучше организовать следующим образом:

– не спеша, внимательно прочитайте задание и входящие в него вопросы или ситуации;

– определите, наиболее верный и полный ответ;

– если вы отвечаете на теоретический вопрос, обдумайте и сформулируйте конкретный ответ только на поставленный вопрос;

– если вы отвечаете на предложенную ситуацию, обдумайте порядок и последовательность действий по предложенной ситуации и впишите ответы в схему в той последовательности, которую вы определили, при этом ответ должен быть кратким, но содержать необходимую информацию;

– если вы отвечаете на задание, связанное с заполнением таблицы, не старайтесь детализировать информацию, вписывайте только те сведения или данные, которые указаны в вопросе или верхних графах;

– после выполнения всех предложенных заданий еще раз удостоверьтесь в правильности выбранных вами ответов и решений;

Задание теоретического тура по данной предметной секции считается выполненным, если Вы вовремя сдаете его членам жюри.

Желаем вам успеха!

Оценка за Теоретический блок 12 **баллов (максимальная 60 баллов)**

Оценка за Блок тестирования 14 **баллов (максимальная 30 балла)**

Оценка результата участника за ТЕОРЕТИЧЕСКИЙ ТУР 26 ***баллов***

(максимально за теоретический тур 90 баллов)

ЗАДАНИЯ ТЕОРЕТИЧЕСКОГО ТУРА

Задание 1. Дайте определение понятий:

а) Опасная (экстремальная) ситуация – это когда случается что не подготовка

б) Чрезвычайная ситуация - это остановка на определённой территории, в результате движения.

Оценочные баллы: *максимально–* ***10 баллов****;*
Фактически набранные баллы за задание - 2 .

Задание 2.

Велосипедист – полноправный участник движения. Но в отличие от автомобилей, у него нет поворотников, как велосипедист показывает намерение повернуть налево?

он показывает ~~на~~ рукой на права

Оценочные баллы: *максимально–* ***5 баллов****;*
Фактически набранные баллы за задание - 0 .

Задание 3.

Вы катаетесь с другом на санках, на улице мороз. Вдруг ты увидел, что кончик носа у друга совсем белый. Само пройдёт или нужна помощь? нужна помощь

Оценочные баллы: *максимально–* ***5 баллов****;*
Фактически набранные баллы за задание - 5 .

Задание 4. Заполните таблицу, указав какие опасные ситуации возможны в доме (квартире).

Название опасной ситуации	Причины возникновения опасных ситуаций	
удар тока	В результате неисправности электропроводки или электротехники, неосторожное обращение с огнем;	0
отравление	В результате утечки газа из-за оставленной невыключенной плиты;	
потоп	В результате неисправности водопровода или из-за незакрытого крана, неисправной стиральной машины;	1
ожог	Газом или химическими препаратами;	0
смерть	Из-за нарушения правил безопасности при использовании	

удар током	электроприборами и электрооборудованием;
цунами	В результате землетрясения или взрыва;

0

Оценочные баллы: *максимально–* ***10 баллов;***
Фактически набранные баллы за задание - 1.

Задание 5. Заполните схему, вписав основные факторы, влияющие на безопасность туризма.

Факторы, влияющие на безопасность туризма	подготовка +
	~~не~~ аптечка
	при заболевании обратиться в больницу
	опасные заболевания +
	состояние транспорта
	стихийные бедствие +
	человечески фактор +

Оценочные баллы: *максимально–* ***10 баллов;***
Фактически набранные баллы за задание - 4.

Баллы за задания Теоретического блока							
№ задания	1	2	3	4	5		
Кол-во баллов	2	0	5	1	4	12	

ЗАДАНИЯ ТЕОРЕТИЧЕСКОГО ТУРА (Блок тестирования)

№ п/п	Тестовые задания	Макс. балл	Кол-во набранных баллов
1	2	3	4
	Определите один правильный ответ		
1.	Опасен ли для пешехода припаркованный у обочины большегрузный автомобиль? А) Опасен, так как он может внезапно начать движение Б) Опасен, так как он мешает обзору дороги, можно не заметить транспорт, движущийся по проезжей части В) Стоящий у обочины автомобиль не опасен	1 В	1
2.	Как действовать при возгорании телевизора? А) Обеспечить доступ воздуха Б) Сразу после возгорания залить телевизор водой В) Быстро обесточить телевизор Г) Накрыть его плотной тканью	1 В	1
3.	У вас возникла необходимость обратиться к водителю. Когда вы это сделаете? А) В момент, когда автобус (трамвай, троллейбус) тронется с места Б) При движении автобуса (трамвая, троллейбуса) В) После полной остановки автобуса (трамвая, троллейбуса)	1 В	1
4.	Вы пришли домой, поставили полный чайник на газовую плиту и, закрыв дверь на кухню, пошли смотреть телевизор. Вдруг почувствовали запах газа. На улице сумерки. Какова очередность ваших дальнейших действий: а) включить свет и посмотреть, в чем причина утечки газа, открыть окно, пойти к соседям и позвонить в аварийную службу; б) выключить телевизор, перекрыть газовый кран, открыть окно, плотно закрыть дверь в кухню; в) зайти на кухню, перекрыть газовый кран, открыть окно, плотно закрыть дверь в кухню, пойти к соседям и позвонить в аварийную службу.	1 В	1
5.	Чтение в движущемся транспорте вредно из — за: А) Недостаточное освещение салона Б) Повышенный уровень шума В) Постоянная смена расстояний от глаз до текста	1 В	1
6.	Группа детей отправилась в туристический поход. С одним из участников похода произошёл несчастный случай – его укусила змея. Место укуса – задняя поверхность голени в средней трети. Что нельзя делать с потерпевшим? а) Обработать ранку раствором антисептика; б) Наложить давящую повязку на пострадавшую часть конечности; в) Наложить кровоостанавливающий жгут выше места укуса; г) Попросить пострадавшего после оказания первой помощи самостоятельно продолжить движение.	1 В	0
7.	Пешеход не успевший закончить переход проезжей части дороги до начало возобновления движения транспортных средств, должен: А) вернуться назад Б) остановиться на осевой линии или островке безопасности, разделяющей транспортные потоки противоположных направлений В) закончить переход дороги Г) двигаться по осевой линии	1 Б	1

8.	Вы находитесь на льду водоёма. Что вы будете делать, если под Вами начал потрескивать лёд? а) постараюсь как можно быстрее добраться до любого ближайшего берега; б) осторожно поверну обратно и скользящими шагами вернусь к берегу по пройденному пути; в) медленно и осторожно поверну обратно, и быстро покину место по пройденному пути; г) постараюсь скользящими шагами добраться до любого ближайшего берега.	1 Г Б	1
9.	Дополните фразу: «Ситуации, в которых нарушена или фактически невозможна нормальная жизнедеятельность большого количества людей на большой территории, называется _____» А) опасной Б) экстремальной В) обычной Г) чрезвычайной	1 Г	1
10	Сколько часов необходимо спать школьнику 10-12 лет? а) 6-8 часов; б) 8-10 часов; в) 10-12 часов.	1 В	0
11	Вам необходимо перебраться вброд через реку с быстрым течением. Каким из способов вы будете переходить ее в выбранном вами месте? а) вниз по течению; б) перпендикулярно течению реки; в) против течения; г) под углом 40 градусов к нему.	1 Г	1
12	В каком возрасте движение велосипедистов должно осуществляться только по тротуарам, пешеходным, велосипедным и велопешеходным дорожкам, а также в пределах пешеходных зон? а) От 3 до 6 лет; б) От 7 до 14 лет; в) От 14 до16 лет	1 В	0
13	Вы находитесь в лесу и зовете на помощь товарища. Как вы должны кричать или давать знать о себе, чтобы вас услышали с большого расстояния? а) громко, но низким тоном; б) пронзительно; в) свистеть с помощью пальцев.	1 а	1
14	Какое количество суставов необходимо иммобилизовать при переломе бедра или плеча? а) два б) три в) четыре г) количество не имеет значения	1 В	0
15	Укажите, какой вред может нанести пожар организму человека, находящегося в горящем помещении А) получение ожогов Б) сгорание книг В) сгорание одежды Г) удушение	1 А	1

16	Максимальный пик работоспособности приходится на период времени: **а)** с 12:00 до 14:00; б) с 07:00 до 10:00; в) с 21:00 до 00:00; г) весь день	1 Г	0
17	При приготовлении пищи, на сковороде загорелся жир. Ваши действия? а) Залейте огонь водой.; б) Накинете на сковороду влажную тряпку.; в) Выключите газ. Сковороду плотно накроете крышкой.	1 В	1
18	В салоне автобуса (трамвая, троллейбуса) вы обнаружили забытый (оставленный) кем-то сверток. Как вы поступите? А) Разверните сверток, чтобы узнать, что там находится Б) Поставите в известность водителя В) Возьмете сверток с собой, чтобы отнести в милицию	1 Б	1
19	Какие из перечисленных факторов относятся к факторам выживания в условиях автономного существования? А) Природно-средовые Б) Метрологические В) Биологические Г) Материально-технические Д) Антропологические Е) Все перечисленные	1 Е	1
20	Водителю велосипеда не запрещается: А) двигаться по проезжей части улицы при наличии рядом велосипедной дорожки Б) иметь звуковой сигнал В) двигаться при неисправности тормозной системы Г) ездить на велосипеде, не держась за руль хотя бы одной рукой	1 Г	0
21	Что служит причиной эмоциональной напряженности в условиях долгой изоляции группы? А) постоянное пребывание людей на глазах друг у друга Б) стремление человека соответствовать определенной ролевой функции В) желание людей быть или казаться лучше окружающих Г) необходимость подавлять свои истинные чувства и желания	1 В	0
Определите все правильные ответы			
22	***Недостаток йода в организме можно восполнить, употребляя:*** а) хлебобулочные изделия; б) йодированную соль; в) молочные продукты; г) морепродукты.	2 Г	0
23	***Из ниже перечисленных объектов выберите те, которые могут являться линейными ориентирами:*** а) автомагистраль; б) горная река; в) движущийся автотранспорт и сельскохозяйственная техника; г) высоковольтная линия электропередач.	2 В	0

24	***От включенной электрогирлянды произошло возгорание искусственной елки высотой 1 м 80 см в комнате жилого дома. Выберите необходимые действия.*** а) Немедленно облить елку большим количеством воды; б) Обесточить электрогирлянду; в) Повалить елку на пол; г) Залить горящую елку большим количеством воды; д) Набросить на горящую елку плотную материю (плед с дивана, одеяло).	3 Д	0
25	**Какие из представленных ниже правил оказания первой помощи при ранении глаз являются верными?** а) промыть повреждённый глаз водой; б) нельзя промывать повреждённый глаз водой; в) наложить стерильную повязку на повреждённый глаз; г) наложить стерильную повязку на два глаза; д) закапать в повреждённый глаз антибактериальные капли.	2 В	0
Количество баллов		***max* 30**	

Оценочные баллы: *максимально –* ***30 баллов****;*
фактически набранные баллы за Блок тестирования - 14 .

*Подпись председателя жюри*_____

Куликова София

Комитет по образованию и делам молодежи Администрации Михайловского района Алтайского края
ВСЕРОССИЙСКАЯ ОЛИМПИАДА ШКОЛЬНИКОВ ПО ОСНОВАМ БЕЗОПАСНОСТИ ЖИЗНЕДЕЯТЕЛЬНОСТИ
(ШКОЛЬНЫЙ ЭТАП)

«____» _____ 2019 г.

ТЕОРЕТИЧЕСКИЙ ТУР
5 - 6 классы

Впишите свой код/шифр		
	602	

Уважаемый участник Олимпиады!

При выполнении заданий теоретического тура Вам предстоит выполнить определенную работу, которую лучше организовать следующим образом:

– не спеша, внимательно прочитайте задание и входящие в него вопросы или ситуации;

– определите, наиболее верный и полный ответ;

– если вы отвечаете на теоретический вопрос, обдумайте и сформулируйте конкретный ответ только на поставленный вопрос;

– если вы отвечаете на предложенную ситуацию, обдумайте порядок и последовательность действий по предложенной ситуации и впишите ответы в схему в той последовательности, которую вы определили, при этом ответ должен быть кратким, но содержать необходимую информацию;

– если вы отвечаете на задание, связанное с заполнением таблицы, не старайтесь детализировать информацию, вписывайте только те сведения или данные, которые указаны в вопросе или верхних графах;

– после выполнения всех предложенных заданий еще раз удостоверьтесь в правильности выбранных вами ответов и решений;

Задание теоретического тура по данной предметной секции считается выполненным, если Вы вовремя сдаете его членам жюри.

Желаем вам успеха!

Оценка за Теоретический блок 4 **баллов (максимальная 60 баллов)**

Оценка за Блок тестирования 11 **баллов (максимальная 30 балла)**

Оценка результата участника за ТЕОРЕТИЧЕСКИЙ ТУР 15 ***баллов***

(максимально за теоретический тур 90 баллов)

ЗАДАНИЯ ТЕОРЕТИЧЕСКОГО ТУРА

Задание 1. Дайте определение понятий:

а) Опасная (экстремальная) ситуация – тюрьмизм, наводнение

б) Чрезвычайная ситуация - пожар, наводнение, взрыв

Оценочные баллы: *максимально–* ***10 баллов;***
Фактически набранные баллы за задание - 0 .

Задание 2.
Велосипедист – полноправный участник движения. Но в отличие от автомобилей, у него нет поворотников, как велосипедист показывает намерение повернуть налево?

Оценочные баллы: *максимально–* ***5 баллов;***
Фактически набранные баллы за задание - 0 .

Задание 3.
Вы катаетесь с другом на санках, на улице мороз. Вдруг ты увидел, что кончик носа у друга совсем белый. Само пройдёт или нужна помощь?

Оценочные баллы: *максимально–* ***5 баллов;***
Фактически набранные баллы за задание - 0 .

Задание 4. Заполните таблицу, указав какие опасные ситуации возможны в доме (квартире).

Название опасной ситуации	Причины возникновения опасных ситуаций	
Пожар	В результате неисправности электропроводки или электротехники, неосторожное обращение с огнем;	+
отравление газом	В результате утечки газа из-за оставленной невыключенной плиты;	–
наводнение	В результате неисправности водопровода или из-за незакрытого крана, неисправной стиральной машины;	–
отравление	Газом или химическими препаратами;	+
спички	Из-за нарушения правил безопасности при использовании	

взрыв гр экстремальная ситуация	электроприборами и электрооборудованием;
	В результате землетрясения или взрыва;

0

Оценочные баллы: *максимально– **10 баллов**;*
Фактически набранные баллы за задание - 2.

Задание 5. Заполните схему, вписав основные факторы, влияющие на безопасность туризма.

Факторы, влияющие на безопасность туризма	жильё, пища, вода. изучить местность. устроить лагерь, приготовится.

Оценочные баллы: *максимально– **10 баллов**;*
Фактически набранные баллы за задание - 2.

Баллы за задания Теоретического блока							
№ задания	1	2	3	4	5		
Кол-во баллов	0	0	0	2	2	4	

ЗАДАНИЯ ТЕОРЕТИЧЕСКОГО ТУРА (Блок тестирования)

№ п/п	Тестовые задания	Макс. балл	Кол-во набранных баллов
1	2	3	4
	Определите один правильный ответ		
1.	Опасен ли для пешехода припаркованный у обочины большегрузный автомобиль? А) Опасен, так как он может внезапно начать движение Б) Опасен, так как он мешает обзору дороги, можно не заметить транспорт, движущийся по проезжей части В) Стоящий у обочины автомобиль не опасен	1	0
2.	Как действовать при возгорании телевизора? А) Обеспечить доступ воздуха Б) Сразу после возгорания залить телевизор водой В) Быстро обесточить телевизор Г) Накрыть его плотной тканью	1	1
3.	У вас возникла необходимость обратиться к водителю. Когда вы это сделаете? А) В момент, когда автобус (трамвай, троллейбус) тронется с места Б) При движении автобуса (трамвая, троллейбуса) В) После полной остановки автобуса (трамвая, троллейбуса)	1	0
4.	Вы пришли домой, поставили полный чайник на газовую плиту и, закрыв дверь на кухню, пошли смотреть телевизор. Вдруг почувствовали запах газа. На улице сумерки. Какова очередность ваших дальнейших действий: а) включить свет и посмотреть, в чем причина утечки газа, открыть окно, пойти к соседям и позвонить в аварийную службу; б) выключить телевизор, перекрыть газовый кран, открыть окно, плотно закрыть дверь в кухню; в) зайти на кухню, перекрыть газовый кран, открыть окно, плотно закрыть дверь в кухню, пойти к соседям и позвонить в аварийную службу.	1	0
5.	Чтение в движущемся транспорте вредно из — за: А) Недостаточное освещение салона Б) Повышенный уровень шума В) Постоянная смена расстояний от глаз до текста	1	0
6.	Группа детей отправилась в туристический поход. С одним из участников похода произошёл несчастный случай – его укусила змея. Место укуса – задняя поверхность голени в средней трети. Что нельзя делать с потерпевшим? а) Обработать ранку раствором антисептика; б) Наложить давящую повязку на пострадавшую часть конечности; в) Наложить кровоостанавливающий жгут выше места укуса; г) Попросить пострадавшего после оказания первой помощи самостоятельно продолжить движение.	1	0
7.	Пешеход не успевший закончить переход проезжей части дороги до начало возобновления движения транспортных средств, должен: А) вернуться назад Б) остановиться на осевой линии или островке безопасности, разделяющей транспортные потоки противоположных направлений В) закончить переход дороги Г) двигаться по осевой линии	1	1

8.	Вы находитесь на льду водоёма. Что вы будете делать, если под Вами начал потрескивать лёд? а) постараюсь как можно быстрее добраться до любого ближайшего берега; б) осторожно поверну обратно и скользящими шагами вернусь к берегу по пройденному пути; в) медленно и осторожно поверну обратно, и быстро покину место по пройденному пути; г) постараюсь скользящими шагами добраться до любого ближайшего берега.	1	
9.	Дополните фразу: «Ситуации, в которых нарушена или фактически невозможна нормальная жизнедеятельность большого количества людей на большой территории, называется _____» А) опасной Б) экстремальной В) обычной Г) чрезвычайной	1	
10	Сколько часов необходимо спать школьнику 10-12 лет? а) 6-8 часов; б) 8-10 часов; в) 10-12 часов.	1	
11	Вам необходимо перебраться вброд через реку с быстрым течением. Каким из способов вы будете переходить ее в выбранном вами месте? а) вниз по течению; б) перпендикулярно течению реки; в) против течения; г) под углом 40 градусов к нему.	1	
12	В каком возрасте движение велосипедистов должно осуществляться только по тротуарам, пешеходным, велосипедным и велопешеходным дорожкам, а также в пределах пешеходных зон? а) 0т 3 до 6 лет; б) От 7 до 14 лет; в) От 14 до16 лет	1	
13	Вы находитесь в лесу и зовете на помощь товарища. Как вы должны кричать или давать знать о себе, чтобы вас услышали с большого расстояния? а) громко, но низким тоном; б) пронзительно; в) свистеть с помощью пальцев.	1	
14	Какое количество суставов необходимо иммобилизовать при переломе бедра или плеча? а) два б) три в) четыре г) количество не имеет значения	1	
15	Укажите, какой вред может нанести пожар организму человека, находящегося в горящем помещении А) получение ожогов Б) сгорание книг В) сгорание одежды Г) удушение	1	
16	Максимальный пик работоспособности приходится на период времени: а) с 12:00 до 14:00; б) с 07:00 до 10:00; в) с 21:00 до 00:00; г) весь день	1	
17	При приготовлении пищи, на сковороде загорелся жир. Ваши действия? а) Залейте огонь водой.; б) Накинете на сковороду влажную тряпку.; в) Выключите газ. Сковороду плотно накроете крышкой.	1	
18	В салоне автобуса (трамвая, троллейбуса) вы обнаружили забытый (оставленный) кем-то сверток. Как вы поступите? А) Развернете сверток, чтобы узнать, что там находится Б) Поставите в известность водителя В) Возьмете сверток с собой, чтобы отнести в милицию	1	
19	Какие из перечисленных факторов относятся к факторам выживания в условиях автономного существования? А) Природно-средовые Б) Метрологические В) Биологические Г) Материально-технические Д) Антропологические Е) Все перечисленные	1	
20	Водителю велосипеда не запрещается: А) двигаться по проезжей части улицы при наличии рядом велосипедной дорожки Б) иметь звуковой сигнал В) двигаться при неисправности тормозной системы Г) ездить на велосипеде, не держась за руль хотя бы одной рукой	1	
21	Что служит причиной эмоциональной напряженности в условиях долгой изоляции группы? А) постоянное пребывание людей на глазах друг у друга Б) стремление человека соответствовать определенной ролевой функции В) желание людей быть или казаться лучше окружающих Г) необходимость подавлять свои истинные чувства и желания	1	
	Определите все правильные ответы		
22	***Недостаток йода в организме можно восполнить, употребляя:*** а) хлебобулочные изделия; б) йодированную соль; в) молочные продукты; г) морепродукты.	2	
23	***Из ниже перечисленных объектов выберите те, которые могут являться линейными ориентирами:*** а) автомагистраль; б) горная река; в) движущийся автотранспорт и сельскохозяйственная техника; г) высоковольтная линия электропередач.	2	

24	***От включенной электрогирлянды произошло возгорание искусственной елки высотой 1 м 80 см в комнате жилого дома. Выберите необходимые действия.*** а) Немедленно облить елку большим количеством воды; б) Обесточить электрогирлянду; в) Повалить елку на пол; г) Залить горящую елку большим количеством воды; д) Набросить на горящую елку плотную материю (плед с дивана, одеяло).	3	2
25	**Какие из представленных ниже правил оказания первой помощи при ранении глаз являются верными?** а) промыть повреждённый глаз водой; б) нельзя промывать повреждённый глаз водой; в) наложить стерильную повязку на повреждённый глаз; г) наложить стерильную повязку на два глаза; д) закапать в повреждённый глаз антибактериальные капли.	2	1
Количество баллов		***max* 30**	

Оценочные баллы: *максимально –* ***30 баллов****;*
фактически набранные баллы за Блок тестирования - _____ .

*Подпись председателя жюри*_____

Климов А 6Б

Комитет по образованию и делам молодежи Администрации Михайловского района Алтайского края

ВСЕРОССИЙСКАЯ ОЛИМПИАДА ШКОЛЬНИКОВ ПО ОСНОВАМ БЕЗОПАСНОСТИ ЖИЗНЕДЕЯТЕЛЬНОСТИ

(ШКОЛЬНЫЙ ЭТАП)

«____» _____ 2019 г.

ТЕОРЕТИЧЕСКИЙ ТУР

5 - 6 классы

Впишите свой код/шифр		
	601	

Уважаемый участник Олимпиады!

При выполнении заданий теоретического тура Вам предстоит выполнить определенную работу, которую лучше организовать следующим образом:

– не спеша, внимательно прочитайте задание и входящие в него вопросы или ситуации;

– определите, наиболее верный и полный ответ;

– если вы отвечаете на теоретический вопрос, обдумайте и сформулируйте конкретный ответ только на поставленный вопрос;

– если вы отвечаете на предложенную ситуацию, обдумайте порядок и последовательность действий по предложенной ситуации и впишите ответы в схему в той последовательности, которую вы определили, при этом ответ должен быть кратким, но содержать необходимую информацию;

– если вы отвечаете на задание, связанное с заполнением таблицы, не старайтесь детализировать информацию, вписывайте только те сведения или данные, которые указаны в вопросе или верхних графах;

– после выполнения всех предложенных заданий еще раз удостоверьтесь в правильности выбранных вами ответов и решений;

Задание теоретического тура по данной предметной секции считается выполненным, если Вы вовремя сдаете его членам жюри.

Желаем вам успеха!

Оценка за Теоретический блок 18 **баллов (максимальная 60 баллов)**

Оценка за Блок тестирования 24 **баллов (максимальная 30 балла)**

Оценка результата участника за ТЕОРЕТИЧЕСКИЙ ТУР 42 ***баллов***

(максимально за теоретический тур 90 баллов)

ЗАДАНИЯ ТЕОРЕТИЧЕСКОГО ТУРА

Задание 1. Дайте определение понятий:

а) Опасная (экстремальная) ситуация – обстановка на определённой территории, которая сложилась в сложной ситуации (2)

б) Чрезвычайная ситуация - обстановка на определённой территории на которой случилось аварий какой категории (2)

Оценочные баллы: *максимально–* ***10 баллов****;*
Фактически набранные баллы за задание - (4).

Задание 2.

Велосипедист – полноправный участник движения. Но в отличие от автомобилей, у него нет поворотников, как велосипедист показывает намерение повернуть налево?

показав своей рукой в левую сторону.

Оценочные баллы: *максимально–* ***5 баллов****;*
Фактически набранные баллы за задание - (3).

Задание 3.

Вы катаетесь с другом на санках, на улице мороз. Вдруг ты увидел, что кончик носа у друга совсем белый. Само пройдёт или нужна помощь?

Оценочные баллы: *максимально–* ***5 баллов****;*
Фактически набранные баллы за задание - (3). 10

Задание 4. Заполните таблицу, указав какие опасные ситуации возможны в доме (квартире).

Название опасной ситуации	**Причины возникновения опасных ситуаций**	
Пожар	В результате неисправности электропроводки или электротехники, неосторожное обращение с огнем;	1
отравление возгорание	В результате утечки газа из-за оставленной невыключенной плиты;	–
потоп	В результате неисправности водопровода или из-за незакрытого крана, неисправной стиральной машины;	1
взрыв	Газом или химическими препаратами;	–
	Из-за нарушения правил безопасности при использовании	

контак	электроприборами и электрооборудованием;
Ударами	В результате землетрясения или взрыва;

Оценочные баллы: *максимально– **10 баллов**;*
Фактически набранные баллы за задание - 3 .

3

Задание 5. Заполните схему, вписав основные факторы, влияющие на безопасность туризма.

Факторы, влияющие на безопасность туризма	Опасные заболевания Состояние транспорта Человеческий фактор Стихийные бедствия Состояние преступности и меры безопасности туристов Внутриполитическая ситуация в стране пребывания Правила санитарно-гигиенической обработки с экскурсионно-вьючным экзотическим и почтительным видами туризма

Оценочные баллы: *максимально– **10 баллов**;*
Фактически набранные баллы за задание - 5 .

5

Баллы за задания Теоретического блока							
№ задания	1	2	3	4	5		
Кол-во баллов	4	3	3	3	5	18	

ЗАДАНИЯ ТЕОРЕТИЧЕСКОГО ТУРА (Блок тестирования)

№ п/п	Тестовые задания	Макс. балл	Кол-во набранных баллов
1	2	3	4
Определите один правильный ответ			
1.	Опасен ли для пешехода припаркованный у обочины большегрузный автомобиль? А) Опасен, так как он может внезапно начать движение Б) Опасен, так как он мешает обзору дороги, можно не заметить транспорт, движущийся по проезжей части В) Стоящий у обочины автомобиль не опасен	1	0
2.	Как действовать при возгорании телевизора? А) Обеспечить доступ воздуха Б) Сразу после возгорания залить телевизор водой В) Быстро обесточить телевизор Г) Накрыть его плотной тканью	1	1
3.	У вас возникла необходимость обратиться к водителю. Когда вы это сделаете? А) В момент, когда автобус (трамвай, троллейбус) тронется с места Б) При движении автобуса (трамвая, троллейбуса) В) После полной остановки автобуса (трамвая, троллейбуса)	1	
4.	Вы пришли домой, поставили полный чайник на газовую плиту и, закрыв дверь на кухню, пошли смотреть телевизор. Вдруг почувствовали запах газа. На улице сумерки. Какова очередность ваших дальнейших действий: а) включить свет и посмотреть, в чем причина утечки газа, открыть окно, пойти к соседям и позвонить в аварийную службу; б) выключить телевизор, перекрыть газовый кран, открыть окно, плотно закрыть дверь в кухню; в) зайти на кухню, перекрыть газовый кран, открыть окно, плотно закрыть дверь в кухню, пойти к соседям и позвонить в аварийную службу.	1	1
5.	Чтение в движущемся транспорте вредно из — за: А) Недостаточное освещение салона Б) Повышенный уровень шума В) Постоянная смена расстояний от глаз до текста	1	1
6.	Группа детей отправилась в туристический поход. С одним из участников похода произошёл несчастный случай – его укусила змея. Место укуса – задняя поверхность голени в средней трети. Что нельзя делать с потерпевшим? а) Обработать ранку раствором антисептика; б) Наложить давящую повязку на пострадавшую часть конечности; в) Наложить кровоостанавливающий жгут выше места укуса; г) Попросить пострадавшего после оказания первой помощи самостоятельно продолжить движение.	1	1
7.	Пешеход не успевший закончить переход проезжей части дороги до начало возобновления движения транспортных средств, должен: А) вернуться назад Б) остановиться на осевой линии или островке безопасности, разделяющей транспортные потоки противоположных направлений В) закончить переход дороги Г) двигаться по осевой линии	1	0

8.	Вы находитесь на льду водоёма. Что вы будете делать, если под Вами начал потрескивать лёд? а) постараюсь как можно быстрее добраться до любого ближайшего берега; б) осторожно поверну обратно и скользящими шагами вернусь к берегу по пройденному пути; в) медленно и осторожно поверну обратно, и быстро покину место по пройденному пути; г) постараюсь скользящими шагами добраться до любого ближайшего берега.	1	0
9.	Дополните фразу: «Ситуации, в которых нарушена или фактически невозможна нормальная жизнедеятельность большого количества людей на большой территории, называется _____» А) опасной Б) экстремальной В) обычной Г) чрезвычайной	1	0
10	Сколько часов необходимо спать школьнику 10-12 лет? а) 6-8 часов; б) 8-10 часов; в) 10-12 часов.	1	1
11	Вам необходимо перебраться вброд через реку с быстрым течением. Каким из способов вы будете переходить ее в выбранном вами месте? а) вниз по течению; б) перпендикулярно течению реки; в) против течения; г) под углом 40 градусов к нему.	1	1
12	В каком возрасте движение велосипедистов должно осуществляться только по тротуарам, пешеходным, велосипедным и велопешеходным дорожкам, а также в пределах пешеходных зон? а) От 3 до 6 лет; б) От 7 до 14 лет; в) От 14 до16 лет	1	1
13	Вы находитесь в лесу и зовете на помощь товарища. Как вы должны кричать или давать знать о себе, чтобы вас услышали с большого расстояния? а) громко, но низким тоном; б) пронзительно; в) свистеть с помощью пальцев.	1	1
14	Какое количество суставов необходимо иммобилизовать при переломе бедра или плеча? а) два б) три в) четыре г) количество не имеет значения	1	1
15	Укажите, какой вред может нанести пожар организму человека, находящегося в горящем помещении А) получение ожогов Б) сгорание книг В) сгорание одежды Г) удушение	1	1

16	Максимальный пик работоспособности приходится на период времени: а) с 12:00 до 14:00; б) с 07:00 до 10:00; в) с 21:00 до 00:00; г) весь день	1	1
17	При приготовлении пищи, на сковороде загорелся жир. Ваши действия? а) Залейте огонь водой.; б) Накинете на сковороду влажную тряпку.; в) Выключите газ. Сковороду плотно накроете крышкой.	1	1
18	В салоне автобуса (трамвая, троллейбуса) вы обнаружили забытый (оставленный) кем-то сверток. Как вы поступите? А) Развернете сверток, чтобы узнать, что там находится Б) Поставите в известность водителя В) Возьмете сверток с собой, чтобы отнести в милицию	1	1
19	Какие из перечисленных факторов относятся к факторам выживания в условиях автономного существования? А) Природно-средовые Б) Метрологические В) Биологические Г) Материально-технические Д) Антропологические Е) Все перечисленные	1	1
20	Водителю велосипеда не запрещается: А) двигаться по проезжей части улицы при наличии рядом велосипедной дорожки Б) иметь звуковой сигнал В) двигаться при неисправности тормозной системы Г) ездить на велосипеде, не держась за руль хотя бы одной рукой	1	1
21	Что служит причиной эмоциональной напряженности в условиях долгой изоляции группы? А) постоянное пребывание людей на глазах друг у друга Б) стремление человека соответствовать определенной ролевой функции В) желание людей быть или казаться лучше окружающих Г) необходимость подавлять свои истинные чувства и желания	1	0
	Определите все правильные ответы		
22	***Недостаток йода в организме можно восполнить, употребляя:*** а) хлебобулочные изделия; б) йодированную соль; в) молочные продукты; г) морепродукты.	2	2
23	***Из ниже перечисленных объектов выберите те, которые могут являться линейными ориентирами:*** а) автомагистраль; б) горная река; в) движущийся автотранспорт и сельскохозяйственная техника; г) высоковольтная линия электропередач.	2	2

24	***От включенной электрогирлянды произошло возгорание искусственной елки высотой 1 м 80 см в комнате жилого дома. Выберите необходимые действия.*** а) Немедленно облить елку большим количеством воды; б) Обесточить электрогирлянду; в) Повалить елку на пол; г) Залить горящую елку большим количеством воды; д) Набросить на горящую елку плотную материю (плед с дивана, одеяло).	3	3
25	**Какие из представленных ниже правил оказания первой помощи при ранении глаз являются верными?** а) промыть повреждённый глаз водой; б) нельзя промывать повреждённый глаз водой; в) наложить стерильную повязку на повреждённый глаз; г) наложить стерильную повязку на два глаза; д) закапать в повреждённый глаз антибактериальные капли.	2	2
Количество баллов		***max* 30**	

Оценочные баллы: *максимально –* ***30 баллов****;*
фактически набранные баллы за Блок тестирования - 24 .

*Подпись председателя жюри*_____

Булатов

Комитет по образованию и делам молодежи Администрации Михайловского района Алтайского края

ВСЕРОССИЙСКАЯ ОЛИМПИАДА ШКОЛЬНИКОВ ПО ОСНОВАМ БЕЗОПАСНОСТИ ЖИЗНЕДЕЯТЕЛЬНОСТИ

(ШКОЛЬНЫЙ ЭТАП)

«____» _____ 2019 г.

ТЕОРЕТИЧЕСКИЙ ТУР

7- 8 класс

Впишите свой код/шифр		
	704	

Уважаемый участник Олимпиады!

При выполнении заданий теоретического тура Вам предстоит выполнить определенную работу, которую лучше организовать следующим образом:

– не спеша, внимательно прочитайте задание и входящие в него вопросы или ситуации;

– определите, наиболее верный и полный ответ;

– если вы отвечаете на теоретический вопрос, обдумайте и сформулируйте конкретный ответ только на поставленный вопрос;

– если вы отвечаете на предложенную ситуацию, обдумайте порядок и последовательность действий по предложенной ситуации и впишите ответы в схему в той последовательности, которую вы определили, при этом ответ должен быть кратким, но содержать необходимую информацию;

– если вы отвечаете на задание, связанное с заполнением таблицы, не старайтесь детализировать информацию, вписывайте только те сведения или данные, которые указаны в вопросе или верхних графах;

– после выполнения всех предложенных заданий еще раз удостоверьтесь в правильности выбранных вами ответов и решений;

Задание теоретического тура по данной предметной секции считается выполненным, если Вы вовремя сдаете его членам жюри.

Желаем вам успеха!

Оценка за Теоретический блок 20 **баллов (максимальная 49 баллов)**

Оценка за Блок тестирования 20 **баллов (максимальная 20 баллов)**

Оценка результата участника за ТЕОРЕТИЧЕСКИЙ ТУР 40 ***баллов***

(максимально за теоретический тур 69 баллов)

ЗАДАНИЯ ТЕОРЕТИЧЕСКОГО ТУРА

Задание 1. Выполните задания:

А) В условиях города тепловой удар необязательно возникает при высокой температуре окружающей среды, достаточно просто сильных физических нагрузок, нехватки жидкости в организме, длительного нахождения в переполненном транспорте. Подумайте и перечислите признаки теплового удара.

Обильное потовыделение, слабость, ~~пото~~ покраснения, ~~Охолождение кожи~~, недомогание, отрышка, холодный пот, потемнение в глазах

Б) Большая распространённость квартирных краж в мегаполисах объясняется спецификой больших городов: разветвленной транспортной системой, высокой концентрацией и миграцией населения. Все это позволяет преступникам, завладев похищенным, быстро скрываться с места преступления и теряться в многомиллионном городе. Находясь дома, вы заметили в окно, что неизвестные лица влезают на балкон или в окно соседней квартиры. Подумайте и перечислите ваши действия.

1. Звонок в полицию, 2. Привлечение внимания взрослых, 3. Звонок владельцам квартиры

Оценочные баллы: *максимально –* ***10 баллов****; Фактически набранные баллы за задание -* 4

Вопрос 2

Сильному землетрясению очень часто предшествуют слабые толчки, которые называются...

форштоки

Оценочные баллы: *максимально –* ***3 балла****; Фактически набранные баллы за задание -* 3

Вопрос 3

Закаливание является одним из важных составляющих здорового образа жизни. Дайте определение понятию «закаливание» и назовите основные принципы.

воздействие на организм при помощи воздуха, воды, высоких и низких температур. Постепенность, систематичность, постоянство

Оценочные баллы: *максимально –* ***3 балла****; Фактически набранные баллы за задание -* 1

Задание 4.

Назовите основные признаки утомления при длительной работе за компьютером?

Боль в глазах, сонливость, головная боль, раздражительность, дальтонизм.

Оценочные баллы: *максимально –* ***3 балла****; Фактически набранные баллы за задание -* 1

Задание 5. Основываясь на знаниях в области защиты населения и территорий от чрезвычайных ситуаций природного характера, по определениям опасных природных явлений, данных в левой колонке таблицы, в правой колонке, впишите вид опасного природного явления.

Определение опасного природного явления	Вид опасного природного явления
Смещение масс горных пород по склону под воздействием собственного веса и дополнительной нагрузки вследствие подмыва склона, переувлажнения, сейсмических толчков и иных процессов.	Оползень +
Затопление водой местности, прилегающей к реке, озеру или водохранилищу, которое наносит урон здоровью людей или даже приводит к их гибели, а также причиняет материальный ущерб.	Наводнение +
Горный поток, состоящий из смеси воды и рыхлообломочной горной породы (грязи, камней).	Сель +
Ветер разрушительной силы и значительной продолжительности, скорость которого превышает 32 м/с.	Ураган +
Покрытие окружающей местности слоем воды, заливающим дворы, улицы населенных пунктов и нижние этажи зданий	Затопление +
Сильный маломасштабный атмосферный вихрь, в котором воздух вращается со скоростью до 100 м/с, обладающий большой разрушительной силой.	Смерч +
Наводнения, вызванные весенним таянием снега на равнинах или таянием снега и ледников в горах	Половодья +
Отрыв и катастрофическое падение больших масс горных пород, их опрокидывание, дробление и скатывание на крутых и обрывистых склонах.	Обвал +
Наводнения, вызванные большим сопротивлением водному потоку, возникающим при скоплении ледового материала в сужениях или излучинах реки во время ледостава	Затор. +

Оценочные баллы: *максимально –* ***10 баллов****;*
фактически набранные баллы за задание - 10

Задание 6. Заполните схему.



Оценочные баллы: *максимально –* ***10 баллов****;*
фактически набранные баллы за задание - _____ .

Задание 7. Выполните задание заполнив схему. (А) Указав физическое качество человека в зависимости от их характеристик. (Б) Перечислите, какие процессы в организме человека обеспечивают регулярное закаливание.

(А)

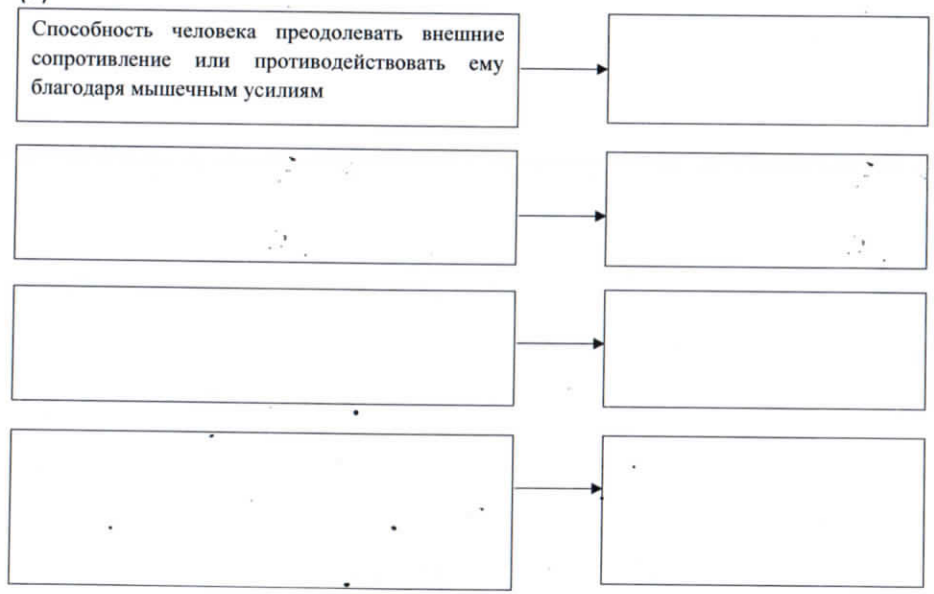

(Б)



Оценочные баллы: *максимально –* ***10 баллов****;*
фактически набранные баллы за задание - ____1

Баллы за задания Теоретического блока								
№ задания	1	2	3	4	5	6	7	
Кол-во баллов	4	3	1	1	10	–	1	

Максимальная оценка за полностью правильно выполненный Теоретический блок – *49 баллов*;
фактически набранные баллы за Теоретический блок - 20

*Подпись председателя жюри*_____

ЗАДАНИЯ ТЕОРЕТИЧЕСКОГО ТУРА (Блок тестирования)

№ п/п	Тестовые задания	Макс. балл	Кол-во набранных баллов
1	2	3	4
	Определите один правильный ответ		
1.	***При оповещении об аварии на радиационноопасном объекте необходимо действовать в указанной последовательности:*** а) включить радио и выслушать сообщение, выключить газ, электричество, взять необходимые вещи, продуты питания, документы, надеть средства защиты, вывесить на двери табличку «В квартире жильцов нет» и следовать на сборный эвакопункт; б) включить радио и выслушать сообщение, выключить газ, электричество, освободить холодильник от продуктов, взять необходимые вещи, документы, надеть средства защиты, и следовать на сборный эвакопункт; в) включить радио и выслушать сообщение, , освободить холодильник от продуктов и вынести скоропортящиеся продукты на мусор, выключить газ, электричество, взять необходимые вещи, документы, надеть средства защиты, вывесить на двери табличку «В квартире жильцов нет» и следовать на сборный эвакопункт;	1	1
2.	**Тип селевых потоков, который может возникнуть при строительстве ГЭС, взрывных и сельскохозяйственных работ:** А) Зональный Б) Геологический В) Антропогенный Г) Региональный	1	1
3.	***Катастрофическое природное явление, которое может вызвать многочисленные человеческие жертвы и значительный материальный ущерб, называется _____ бедствием.*** а) национальным; б) стихийным; в) экологическим; г) биологическим.	1	1
4.	**Затор – это...** А) Загромождение русла реки во время ледохода Б) Подъём уровня воды под действием ветра В) Скопление глубинных осколков льда в реке под неподвижным ледяным покровом Г) Стихийное бедствие, вызванное сильным ветром, обильными осадками	1	1
5.	**ЧС, имеющая биологический характер** А) Землетрясение Б) Эпизоотия В) Сель Г) Гололедица	1	1

6.	***Радиоактивные вещества:*** а) моментально распространяются в атмосфере независимо от скорости и направления ветра, стелются по земле на небольшой высоте; б) имеют специфический запах сероводорода, интенсивность которого не зависит от внешних факторов, а определяется периодом полураспада данного вещества; в) не имеют запаха, цвета, вкусовых качеств, не могут быть уничтожены химическим или каким-либо другим способом, способны вызвать поражение на расстоянии от источника.	1	1
7.	**Сила урагана измеряется по шкале:** А) Цельсия Б) Рихтера В) Бофорта Г) Форенгейта	1	1
8.	**Назовите заболевание и возбудителя, его вызывающего при попадании в рану земли (почвы) ,выберите ответ:** А) холера, холерный вибрион Б) грипп, вирус гриппа В) СПИД, вирус иммунодефицита Г) столбняк, столбнячная палочка	1	1
9.	***Какие группы опасных природных явлений наиболее распространены в Российской Федерации?*** а) космические, подземные, надземные, вулканические, снежные; б) чрезвычайные, местные, ситуационные, ландшафтные, биологические; в) геологические, метеорологические, гидрологические, природные; г) океанические, атмосферные, динамические, визуальные, медицинские.	1	1
10	**В каких местах наиболее вероятны и опасны камнепады?** А) На горных пастбищах Б) В местах обитания диких животных В) На автомобильных дорогах, проложенных в крутосклонных ущельях Г) На морских побережьях	1	1
11	**Дополните предложение: «Затопление это – ... »** А) Овраг, заполненный водой Б) Яма, заполненная водой В) Покрытие окружающей местности слоем воды Г) Проникновение воды в подвалы зданий через канализационную сеть	1	1
12	Какой из перечисленных процессов не соответствует условиям горения? А) Наличие горючего вещества Б) Наличие окислителя В) Наличие условий для теплообмена Г) Наличие источника воспламенения	1	1
	Определите все правильные ответы		
13	***При обнаружении в лесу огня, распространяющегося по кустарнику и деревьям, на расстоянии 100 – 150 метров от вас:*** а) побежите по направлению распространения огня; б) определите направление распространения огня; в) станете кричать, звать на помощь; г) определите направление ветра; д) быстро сориентируетесь и направитесь в безопасное место под прямым углом к направлению распространения огня в наветренную сторону; е) попробуете ветками или подручными средствами сбить огонь; ж) найдете ближайший водоем и в нем дождетесь, когда пройдет огонь; з) как можно быстрее доберетесь до ближайшего поселка и сообщите о пожаре взрослым.	4	4
14	***Укажите точки прижатия артерии для временной остановки кровотечения методом пальцевого прижатия:*** а) там, где артерия проходит в толще мышечной ткани; б) там, где артерия проходит поверхностно; в) в ране; г) там, где артерия проходит над костью; д) в любой точке по ходу артерии.	2	2
15	***Укажите приёмы восстановления проходимости дыхательных путей:*** а) приподнимание головы; б) запрокидывание головы; в) выдвижение нижней челюсти; г) использование лицевой маски; д) использование пластиковой плёнки с клапаном; одностороннего движения воздуха.	2	2
Количество баллов		***max* 20**	

Оценочные баллы: *максимально –* ***20 баллов****;*
фактически набранные баллы за Блок тестирования - 20

Подпись председателя жюри _____

Туркамова Карина 7Б

Комитет по образованию и делам молодежи Администрации Михайловского района Алтайского края

ВСЕРОССИЙСКАЯ ОЛИМПИАДА ШКОЛЬНИКОВ ПО ОСНОВАМ БЕЗОПАСНОСТИ ЖИЗНЕДЕЯТЕЛЬНОСТИ

(ШКОЛЬНЫЙ ЭТАП)

«_____» _____ 2019 г.

ТЕОРЕТИЧЕСКИЙ ТУР

7- 8 класс

Впишите свой код/шифр		
	706	

Уважаемый участник Олимпиады!

При выполнении заданий теоретического тура Вам предстоит выполнить определенную работу, которую лучше организовать следующим образом:

– не спеша, внимательно прочитайте задание и входящие в него вопросы или ситуации;

– определите, наиболее верный и полный ответ;

– если вы отвечаете на теоретический вопрос, обдумайте и сформулируйте конкретный ответ только на поставленный вопрос;

– если вы отвечаете на предложенную ситуацию, обдумайте порядок и последовательность действий по предложенной ситуации и впишите ответы в схему в той последовательности, которую вы определили, при этом ответ должен быть кратким, но содержать необходимую информацию;

– если вы отвечаете на задание, связанное с заполнением таблицы, не старайтесь детализировать информацию, вписывайте только те сведения или данные, которые указаны в вопросе или верхних графах;

– после выполнения всех предложенных заданий еще раз удостоверьтесь в правильности выбранных вами ответов и решений;

Задание теоретического тура по данной предметной секции считается выполненным, если Вы вовремя сдаете его членам жюри.

Желаем вам успеха!

Оценка за Теоретический блок 26 **баллов (максимальная 49 баллов)**

Оценка за Блок тестирования 19 **баллов (максимальная 20 баллов)**

Оценка результата участника за ТЕОРЕТИЧЕСКИЙ ТУР 45 ***баллов***
(максимально за теоретический тур 69 баллов)

ЗАДАНИЯ ТЕОРЕТИЧЕСКОГО ТУРА

Задание 1. Выполните задания:

А) В условиях города тепловой удар необязательно возникает при высокой температуре окружающей среды, достаточно просто сильных физических нагрузок, нехватки жидкости в организме, длительного нахождения в переполненном транспорте. Подумайте и перечислите признаки теплового удара.

Признаками теплового удара являются: слабость, головная боль, головокружение, сухость во рту и жажда, потеря сознания

Б) Большая распространённость квартирных краж в мегаполисах объясняется спецификой больших городов: разветвленной транспортной системой, высокой концентрацией и миграцией населения. Все это позволяет преступникам, завладев похищенным, быстро скрываться с места преступления и теряться в многомиллионном городе. Находясь дома, вы заметили в окно, что неизвестные лица влезают на балкон или в окно соседней квартиры. Подумайте и перечислите ваши действия.

Немедленно сообщить по телефону в полицию. Запомнить (записать) их приметы, марку и номер транспортного средства (если есть). По приезду наряда полиции указать место происшествия и сообщить приметы преступников.

Оценочные баллы: *максимально –* ***10 баллов****; Фактически набранные баллы за задание -* 10

Вопрос 2

Сильному землетрясению очень часто предшествуют слабые толчки, которые называются...

форшок

Оценочные баллы: *максимально –* ***3 балла****; Фактически набранные баллы за задание -* 3

Вопрос 3

Закаливание является одним из важных составляющих здорового образа жизни. Дайте определение понятию «закаливание» и назовите основные принципы.

система специальных тренировок тела. Оптимальная холодная водой, холодной души

Оценочные баллы: *максимально –* ***3 балла****; Фактически набранные баллы за задание -* 1

Задание 4.

Назовите основные признаки утомления при длительной работе за компьютером?

напряжение глаз, нарушения точности в работе

Оценочные баллы: *максимально –* ***3 балла****; Фактически набранные баллы за задание -* 2

Задание 5. Основываясь на знаниях в области защиты населения и территорий от чрезвычайных ситуаций природного характера, по определениям опасных природных явлений, данных в левой колонке таблицы, в правой колонке, впишите вид опасного природного явления.

Определение опасного природного явления	Вид опасного природного явления
Смещение масс горных пород по склону под воздействием собственного веса и дополнительной нагрузки вследствие подмыва склона, переувлажнения, сейсмических толчков и иных процессов.	оползень, лавина +
Затопление водой местности, прилегающей к реке, озеру или водохранилищу, которое наносит урон здоровью людей или даже приводит к их гибели, а также причиняет материальный ущерб.	наводнение или потоп +
Горный поток, состоящий из смеси воды и рыхлообломочной горной породы (грязи, камней).	сель +
Ветер разрушительной силы и значительной продолжительности, скорость которого превышает 32 м/с.	Ураган +
Покрытие окружающей местности слоем воды, заливающим дворы, улицы населенных пунктов и нижние этажи зданий	затопление +
Сильный маломасштабный атмосферный вихрь, в котором воздух вращается со скоростью до 100 м/с, обладающий большой разрушительной силой.	смерч +
Наводнения, вызванные весенним таянием снега на равнинах или таянием снега и ледников в горах	половодье +
Отрыв и катастрофическое падение больших масс горных пород, их опрокидывание, дробление и скатывание на крутых и обрывистых склонах.	обвал +
Наводнения, вызванные большим сопротивлением водному потоку, возникающим при скоплении ледового материала в сужениях или излучинах реки во время ледостава	заторы +

Оценочные баллы: *максимально –* ***10 баллов****;*
фактически набранные баллы за задание - 10

Задание 6. Заполните схему.

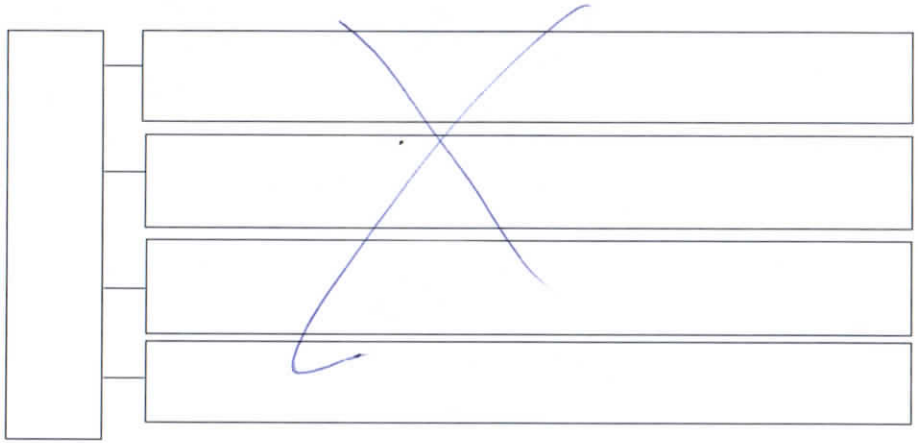

Оценочные баллы: *максимально –* ***10 баллов****;*
фактически набранные баллы за задание - _____ .

Задание 7. Выполните задание заполнив схему. (А) Указав физическое качество человека в зависимости от их характеристик. (Б) Перечислите, какие процессы в организме человека обеспечивают регулярное закаливание.

(А)

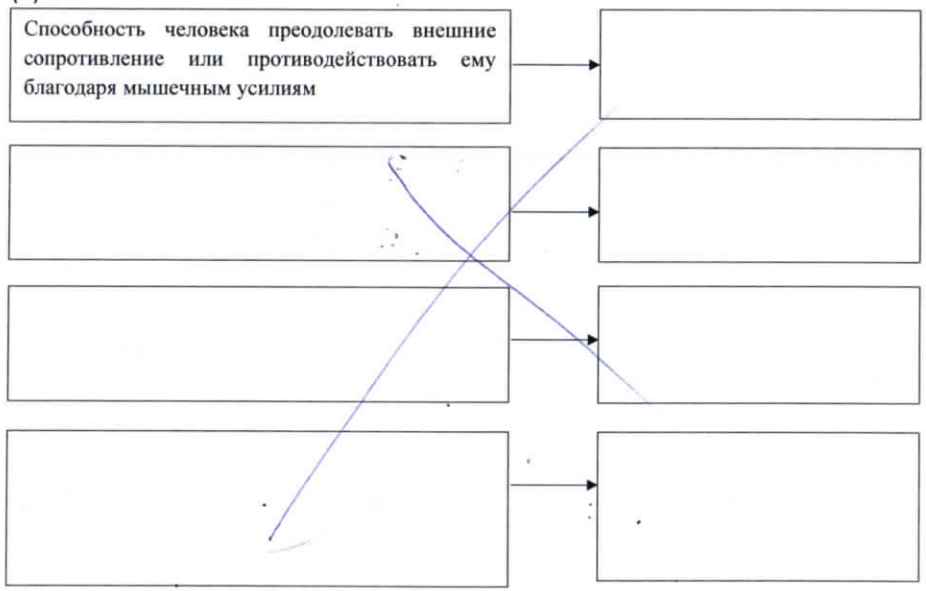

(Б)

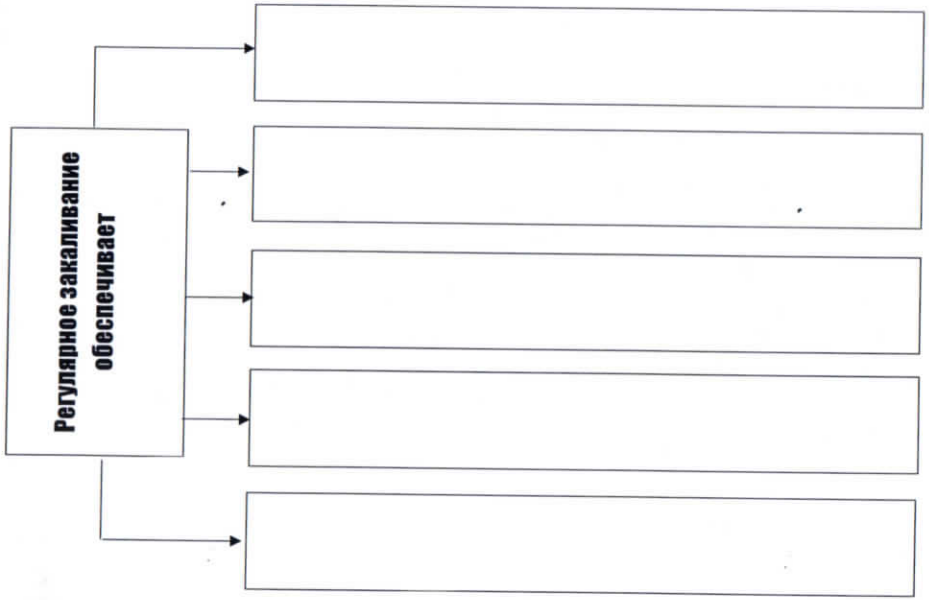

Оценочные баллы: *максимально – **10 баллов**;*
фактически набранные баллы за задание - 0.

Баллы за задания Теоретического блока								
№ задания	1	2	3	4	5	6	7	
Кол-во баллов	10	3	1	2	10	—	0	

Максимальная оценка за полностью правильно выполненный Теоретический блок – *49 баллов*;
фактически набранные баллы за Теоретический блок - 26.

*Подпись председателя жюри*_____

ЗАДАНИЯ ТЕОРЕТИЧЕСКОГО ТУРА (Блок тестирования)

№ п/п	Тестовые задания	Макс. балл	Кол-во набранных баллов
1	2	3	4
Определите один правильный ответ			
1.	***При оповещении об аварии на радиационноопасном объекте необходимо действовать в указанной последовательности:*** а) включить радио и выслушать сообщение, выключить газ, электричество, взять необходимые вещи, продуты питания, документы, надеть средства защиты, вывесить на двери табличку «В квартире жильцов нет» и следовать на сборный эвакопункт; б) включить радио и выслушать сообщение, выключить газ, электричество, освободить холодильник от продуктов, взять необходимые вещи, документы, надеть средства защиты, и следовать на сборный эвакопункт; (в) включить радио и выслушать сообщение, , освободить холодильник от продуктов и вынести скоропортящиеся продукты на мусор, выключить газ, электричество, взять необходимые вещи, документы, надеть средства защиты, вывесить на двери табличку «В квартире жильцов нет» и следовать на сборный эвакопункт;	1	1
2.	**Тип селевых потоков, который может возникнуть при строительстве ГЭС, взрывных и сельскохозяйственных работ:** А) Зональный Б) Геологический (В) Антропогенный Г) Региональный	1	1
3.	***Катастрофическое природное явление, которое может вызвать многочисленные человеческие жертвы и значительный материальный ущерб, называется _____ бедствием.*** а) национальным; (б) стихийным; в) экологическим; г) биологическим.	1	1
4.	**Затор – это...** (А) Загромождение русла реки во время ледохода Б) Подъём уровня воды под действием ветра В) Скопление глубинных осколков льда в реке под неподвижным ледяным покровом Г) Стихийное бедствие, вызванное сильным ветром, обильными осадками	1	1
5.	**ЧС, имеющая биологический характер** А) Землетрясение (Б) Эпизоотия В) Сель Г) Гололедица	1	1

6.	***Радиоактивные вещества:*** а) моментально распространяются в атмосфере независимо от скорости и направления ветра, стелются по земле на небольшой высоте; б) имеют специфический запах сероводорода, интенсивность которого не зависит от внешних факторов, а определяется периодом полураспада данного вещества; (в) не имеют запаха, цвета, вкусовых качеств, не могут быть уничтожены химическим или каким-либо другим способом, способны вызвать поражение на расстоянии от источника.	1	1
7.	**Сила урагана измеряется по шкале:** А) Цельсия Б) Рихтера (В) Бофорта Г) Форенгейта	1	1
8.	**Назовите заболевание и возбудителя, его вызывающего при попадании в рану земли (почвы) ,выберите ответ:** А) холера, холерный вибрион Б) грипп, вирус гриппа В) СПИД, вирус иммунодефицита (Г) столбняк, столбнячная палочка	1	1
9.	***Какие группы опасных природных явлений наиболее распространены в Российской Федерации?*** а) космические, подземные, надземные, вулканические, снежные; б) чрезвычайные, местные, ситуационные, ландшафтные, биологические; (в) геологические, метеорологические, гидрологические, природные; г) океанические, атмосферные, динамические, визуальные, медицинские.	1	
10	**В каких местах наиболее вероятны и опасны камнепады?** А) На горных пастбищах Б) В местах обитания диких животных (В) На автомобильных дорогах, проложенных в крутосклонных ущельях Г) На морских побережьях	1	1
11	**Дополните предложение: «Затопление это – ... »** А) Овраг, заполненный водой Б) Яма, заполненная водой (В) Покрытие окружающей местности слоем воды Г) Проникновение воды в подвалы зданий через канализационную сеть	1	1
12	Какой из перечисленных процессов не соответствует условиям горения? А) Наличие горючего вещества Б) Наличие окислителя (В) Наличие условий для теплообмена Г) Наличие источника воспламенения	1	1
	Определите все правильные ответы		
13	***При обнаружении в лесу огня, распространяющегося по кустарнику и деревьям, на расстоянии 100 – 150 метров от вас:*** а) побежите по направлению распространения огня; (б) определите направление распространения огня; в) станете кричать, звать на помощь; (г) определите направление ветра; (д) быстро сориентируетесь и направитесь в безопасное место под прямым углом к направлению распространения огня в наветренную сторону; е) попробуете ветками или подручными средствами сбить огонь; ж) найдете ближайший водоем и в нем дождетесь, когда пройдет огонь; (з) как можно быстрее доберетесь до ближайшего поселка и сообщите о пожаре взрослым.	4	4
14	***Укажите точки прижатия артерии для временной остановки кровотечения методом пальцевого прижатия:*** а) там, где артерия проходит в толще мышечной ткани; (б) там, где артерия проходит поверхностно; в) в ране; (г) там, где артерия проходит над костью; д) в любой точке по ходу артерии.	2	2
15	***Укажите приёмы восстановления проходимости дыхательных путей:*** а) приподнимание головы; (б) запрокидывание головы; (в) выдвижение нижней челюсти; г) использование лицевой маски; д) использование пластиковой плёнки с клапаном; одностороннего движения воздуха.	2	2
Количество баллов		***max* 20**	

Оценочные баллы: *максимально –* ***20 баллов****;*
фактически набранные баллы за Блок тестирования - 19

Подпись председателя жюри _____

Чуркиной

Комитет по образованию и делам молодежи Администрации Михайловского района Алтайского края

ВСЕРОССИЙСКАЯ ОЛИМПИАДА ШКОЛЬНИКОВ ПО ОСНОВАМ БЕЗОПАСНОСТИ ЖИЗНЕДЕЯТЕЛЬНОСТИ

(ШКОЛЬНЫЙ ЭТАП)

«____» _____ 2019 г.

ТЕОРЕТИЧЕСКИЙ ТУР

7- 8 класс

Впишите свой код/шифр		
	708	

Уважаемый участник Олимпиады!

При выполнении заданий теоретического тура Вам предстоит выполнить определенную работу, которую лучше организовать следующим образом:

– не спеша, внимательно прочитайте задание и входящие в него вопросы или ситуации;

– определите, наиболее верный и полный ответ;

– если вы отвечаете на теоретический вопрос, обдумайте и сформулируйте конкретный ответ только на поставленный вопрос;

– если вы отвечаете на предложенную ситуацию, обдумайте порядок и последовательность действий по предложенной ситуации и впишите ответы в схему в той последовательности, которую вы определили, при этом ответ должен быть кратким, но содержать необходимую информацию;

– если вы отвечаете на задание, связанное с заполнением таблицы, не старайтесь детализировать информацию, вписывайте только те сведения или данные, которые указаны в вопросе или верхних графах;

– после выполнения всех предложенных заданий еще раз удостоверьтесь в правильности выбранных вами ответов и решений;

Задание теоретического тура по данной предметной секции считается выполненным, если Вы вовремя сдаете его членам жюри.

Желаем вам успеха!

Оценка за Теоретический блок 28 **баллов (максимальная 49 баллов)**

Оценка за Блок тестирования 19 **баллов (максимальная 20 баллов)**

Оценка результата участника за ТЕОРЕТИЧЕСКИЙ ТУР 47 ***баллов***

(максимально за теоретический тур 69 баллов)

ЗАДАНИЯ ТЕОРЕТИЧЕСКОГО ТУРА

Задание 1. Выполните задания:

А) В условиях города тепловой удар необязательно возникает при высокой температуре окружающей среды, достаточно просто сильных физических нагрузок, нехватки жидкости в организме, длительного нахождения в переполненном транспорте. Подумайте и перечислите признаки теплового удара.

Головная боль, головокружение, рвота, тошнота, слабость

Б) Большая распространённость квартирных краж в мегаполисах объясняется спецификой больших городов: разветвленной транспортной системой, высокой концентрацией и миграцией населения. Все это позволяет преступникам, завладев похищенным, быстро скрываться с места преступления и теряться в многомиллионном городе. Находясь дома, вы заметили в окно, что неизвестные лица влезают на балкон или в окно соседней квартиры. Подумайте и перечислите ваши действия.

Позвонить в полицию, сообщить соседям, сообщить родителям

Оценочные баллы: *максимально –* ***10 баллов****; Фактически набранные баллы за задание -* 8

Вопрос 2

Сильному землетрясению очень часто предшествуют слабые толчки, которые называются...

форшок

Оценочные баллы: *максимально –* ***3 балла****; Фактически набранные баллы за задание -* 3

Вопрос 3

Закаливание является одним из важных составляющих здорового образа жизни. Дайте определение понятию «закаливание» и назовите основные принципы.

Основные принципы - закаляется постепенно сначала теплой водой потом постепенно снижать температуру воды, регулярность

Оценочные баллы: *максимально –* ***3 балла****; Фактически набранные баллы за задание -* 2

Задание 4.

Назовите основные признаки утомления при длительной работе за компьютером?

Головная боль, болят глаза, снижение памяти, напряжение глаз

Оценочные баллы: *максимально –* ***3 балла****; Фактически набранные баллы за задание -* 2

Задание 5. Основываясь на знаниях в области защиты населения и территорий от чрезвычайных ситуаций природного характера, по определениям опасных природных явлений, данных в левой колонке таблицы, в правой колонке, впишите вид опасного природного явления.

Определение опасного природного явления	Вид опасного природного явления
Смещение масс горных пород по склону под воздействием собственного веса и дополнительной нагрузки вследствие подмыва склона, переувлажнения, сейсмических толчков и иных процессов.	Оползень +
Затопление водой местности, прилегающей к реке, озеру или водохранилищу, которое наносит урон здоровью людей или даже приводит к их гибели, а также причиняет материальный ущерб.	наводнение +
Горный поток, состоящий из смеси воды и рыхлообломочной горной породы (грязи, камней).	сель +
Ветер разрушительной силы и значительной продолжительности, скорость которого превышает 32 м/с.	ураган +
Покрытие окружающей местности слоем воды, заливающим дворы, улицы населенных пунктов и нижние этажи зданий	затопление +
Сильный маломасштабный атмосферный вихрь, в котором воздух вращается со скоростью до 100 м/с, обладающий большой разрушительной силой.	смерч +
Наводнения, вызванные весенним таянием снега на равнинах или таянием снега и ледников в горах	~~Паводок~~ Половодье +
Отрыв и катастрофическое падение больших масс горных пород, их опрокидывание, дробление и скатывание на крутых и обрывистых склонах.	Обвалы +
Наводнения, вызванные большим сопротивлением водному потоку, возникающим при скоплении ледового материала в сужениях или излучинах реки во время ледостава	Зажор +

Оценочные баллы: *максимально –* ***10 баллов****;*
фактически набранные баллы за задание - 10

Задание 6. Заполните схему.



Оценочные баллы: *максимально –* ***10 баллов****;*
фактически набранные баллы за задание - _____ .

Задание 7. Выполните задание заполнив схему. (А) Указав физическое качество человека в зависимости от их характеристик. (Б) Перечислите, какие процессы в организме человека обеспечивают регулярное закаливание.

(А)

Способность человека преодолевать внешние сопротивление или противодействовать ему благодаря мышечным усилиям	Гибкость

(Б)

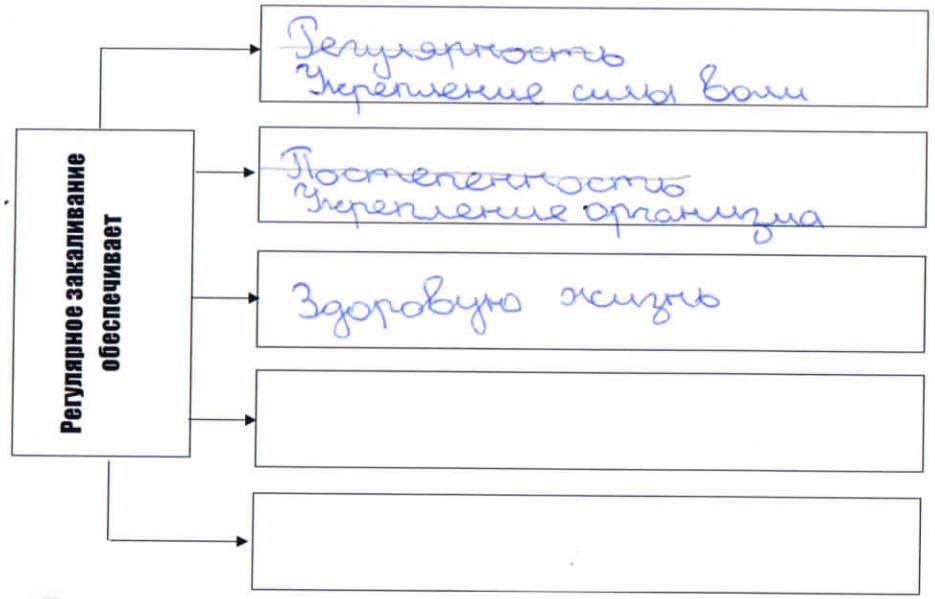

Оценочные баллы: *максимально –* ***10 баллов****;*
фактически набранные баллы за задание - 3

Баллы за задания Теоретического блока								
№ задания	1	2	3	4	5	6	7	
Кол-во баллов	8	3	2	2	10	–	3	

Максимальная оценка за полностью правильно выполненный Теоретический блок – *49 баллов*;
фактически набранные баллы за Теоретический блок - 28.

*Подпись председателя жюри*_____

ЗАДАНИЯ ТЕОРЕТИЧЕСКОГО ТУРА (Блок тестирования)

№ п/п	Тестовые задания	Макс. балл	Кол-во набранных баллов
1	2	3	4
	Определите один правильный ответ		
1.	***При оповещении об аварии на радиационноопасном объекте необходимо действовать в указанной последовательности:*** а) включить радио и выслушать сообщение, выключить газ, электричество, взять необходимые вещи, продуты питания, документы, надеть средства защиты, вывесить на двери табличку «В квартире жильцов нет» и следовать на сборный эвакопункт; б) включить радио и выслушать сообщение, выключить газ, электричество, освободить холодильник от продуктов, взять необходимые вещи, документы, надеть средства защиты, и следовать на сборный эвакопункт; в) включить радио и выслушать сообщение, , освободить холодильник от продуктов и вынести скоропортящиеся продукты на мусор, выключить газ, электричество, взять необходимые вещи, документы, надеть средства защиты, вывесить на двери табличку «В квартире жильцов нет» и следовать на сборный эвакопункт;	1	0
2.	**Тип селевых потоков, который может возникнуть при строительстве ГЭС, взрывных и сельскохозяйственных работ:** А) Зональный Б) Геологический В) Антропогенный Г) Региональный	1	1
3.	***Катастрофическое природное явление, которое может вызвать многочисленные человеческие жертвы и значительный материальный ущерб, называется _____ бедствием.*** а) национальным; б) стихийным; в) экологическим; г) биологическим.	1	1
4.	**Затор – это...** А) Загромождение русла реки во время ледохода Б) Подъём уровня воды под действием ветра В) Скопление глубинных осколков льда в реке под неподвижным лёдяным покровом Г) Стихийное бедствие, вызванное сильным ветром, обильными осадками	1	1
5.	**ЧС, имеющая биологический характер** А) Землетрясение Б) Эпизоотия В) Сель Г) Гололедица	1	1

6.	***Радиоактивные вещества:*** а) моментально распространяются в атмосфере независимо от скорости и направления ветра, стелются по земле на небольшой высоте; б) имеют специфический запах сероводорода, интенсивность которого не зависит от внешних факторов, а определяется периодом полураспада данного вещества; в) не имеют запаха, цвета, вкусовых качеств, не могут быть уничтожены химическим или каким-либо другим способом, способны вызвать поражение на расстоянии от источника.	1	1
7.	**Сила урагана измеряется по шкале:** А) Цельсия Б) Рихтера В) Бофорта Г) Форенгейта	1	1
8.	**Назовите заболевание и возбудителя, его вызывающего при попадании в рану земли (почвы) ,выберите ответ:** А) холера, холерный вибрион Б) грипп, вирус гриппа В) СПИД, вирус иммунодефицита Г) столбняк, столбнячная палочка	1	1
9.	***Какие группы опасных природных явлений наиболее распространены в Российской Федерации?*** а) космические, подземные, надземные, вулканические, снежные; б) чрезвычайные, местные, ситуационные, ландшафтные, биологические; в) геологические, метеорологические, гидрологические, природные; г) океанические, атмосферные, динамические, визуальные, медицинские.	1	1
10	**В каких местах наиболее вероятны и опасны камнепады?** А) На горных пастбищах Б) В местах обитания диких животных В) На автомобильных дорогах, проложенных в крутосклонных ущельях Г) На морских побережьях	1	1
11	**Дополните предложение: «Затопление это – ... »** А) Овраг, заполненный водой Б) Яма, заполненная водой В) Покрытие окружающей местности слоем воды Г) Проникновение воды в подвалы зданий через канализационную сеть	1	1
12	Какой из перечисленных процессов не соответствует условиям горения? А) Наличие горючего вещества Б) Наличие окислителя В) Наличие условий для теплообмена Г) Наличие источника воспламенения	1	1
	Определите все правильные ответы		
13	***При обнаружении в лесу огня, распространяющегося по кустарнику и деревьям, на расстоянии 100 – 150 метров от вас:*** а) побежите по направлению распространения огня; б) определите направление распространения огня; в) станете кричать, звать на помощь; г) определите направление ветра; д) быстро сориентируетесь и направитесь в безопасное место под прямым углом к направлению распространения огня в наветренную сторону; е) попробуете ветками или подручными средствами сбить огонь; ж) найдете ближайший водоем и в нем дождетесь, когда пройдет огонь; з) как можно быстрее доберетесь до ближайшего поселка и сообщите о пожаре взрослым.	4	4
14	***Укажите точки прижатия артерии для временной остановки кровотечения методом пальцевого прижатия:*** а) там, где артерия проходит в толще мышечной ткани; б) там, где артерия проходит поверхностно; в) в ране; г) там, где артерия проходит над костью; д) в любой точке по ходу артерии.	2	2
15	***Укажите приёмы восстановления проходимости дыхательных путей:*** а) приподнимание головы; б) запрокидывание головы; в) выдвижение нижней челюсти; г) использование лицевой маски; д) использование пластиковой плёнки с клапаном; одностороннего движения воздуха.	2	2
Количество баллов		***max* 20**	

Оценочные баллы: *максимально –* ***20 баллов;***
фактически набранные баллы за Блок тестирования - 19 .

Подпись председателя жюри _____

Комитет по образованию и делам молодежи Администрации Михайловского района Алтайского края

ВСЕРОССИЙСКАЯ ОЛИМПИАДА ШКОЛЬНИКОВ ПО ОСНОВАМ БЕЗОПАСНОСТИ ЖИЗНЕДЕЯТЕЛЬНОСТИ

(ШКОЛЬНЫЙ ЭТАП)

«_____» _____ 2019 г.

ТЕОРЕТИЧЕСКИЙ ТУР

7- 8 класс

Впишите свой код/шифр		
	709	

Уважаемый участник Олимпиады!

При выполнении заданий теоретического тура Вам предстоит выполнить определенную работу, которую лучше организовать следующим образом:

– не спеша, внимательно прочитайте задание и входящие в него вопросы или ситуации;

– определите, наиболее верный и полный ответ;

– если вы отвечаете на теоретический вопрос, обдумайте и сформулируйте конкретный ответ только на поставленный вопрос;

– если вы отвечаете на предложенную ситуацию, обдумайте порядок и последовательность действий по предложенной ситуации и впишите ответы в схему в той последовательности, которую вы определили, при этом ответ должен быть кратким, но содержать необходимую информацию;

– если вы отвечаете на задание, связанное с заполнением таблицы, не старайтесь детализировать информацию, вписывайте только те сведения или данные, которые указаны в вопросе или верхних графах;

– после выполнения всех предложенных заданий еще раз удостоверьтесь в правильности выбранных вами ответов и решений;

Задание теоретического тура по данной предметной секции считается выполненным, если Вы вовремя сдаете его членам жюри.

Желаем вам успеха!

Оценка за Теоретический блок 25 **баллов (максимальная 49 баллов)**

Оценка за Блок тестирования 20 **баллов (максимальная 20 баллов).**

Оценка результата участника за ТЕОРЕТИЧЕСКИЙ ТУР 45 ***баллов***
(максимально за теоретический тур 69 баллов)

ЗАДАНИЯ ТЕОРЕТИЧЕСКОГО ТУРА

Задание 1. Выполните задания:

А) В условиях города тепловой удар необязательно возникает при высокой температуре окружающей среды, достаточно просто сильных физических нагрузок, нехватки жидкости в организме, длительного нахождения в переполненном транспорте. Подумайте и перечислите признаки теплового удара.

Тошнота, рвота, слабость, покраснение кожи, горячий.

Б) Большая распространённость квартирных краж в мегаполисах объясняется спецификой больших городов: разветвленной транспортной системой, высокой концентрацией и миграцией населения. Все это позволяет преступникам, завладев похищенным, быстро скрываться с места преступления и теряться в многомиллионном городе. Находясь дома, вы заметили в окно, что неизвестные лица влезают на балкон или в окно соседней квартиры. Подумайте и перечислите ваши действия.

Сообщить соседям, сообщить родителям, позвонить полиции

Оценочные баллы: *максимально –* ***10 баллов****; Фактически набранные баллы за задание -* 3

Вопрос 2

Сильному землетрясению очень часто предшествуют слабые толчки, которые называются...

форшок

Оценочные баллы: *максимально –* ***3 балла****; Фактически набранные баллы за задание -* 3

Вопрос 3

Закаливание является одним из важных составляющих здорового образа жизни. Дайте определение понятию «закаливание» и назовите основные принципы.

Закаливание - система постепенных тренировочных действий организма. Выносливость, результат.

Оценочные баллы: *максимально –* ***3 балла****; Фактически набранные баллы за задание -* 2

Задание 4.

Назовите основные признаки утомления при длительной работе за компьютером?

Напряжение глаз, напряжение, нарушение памяти.

Оценочные баллы: *максимально –* ***3 балла****; Фактически набранные баллы за задание -* 2

Задание 5. Основываясь на знаниях в области защиты населения и территорий от чрезвычайных ситуаций природного характера, по определениям опасных природных явлений, данных в левой колонке таблицы, в правой колонке, впишите вид опасного природного явления.

Определение опасного природного явления	Вид опасного природного явления
Смещение масс горных пород по склону под воздействием собственного веса и дополнительной нагрузки вследствие подмыва склона, переувлажнения, сейсмических толчков и иных процессов.	оползень +
Затопление водой местности, прилегающей к реке, озеру или водохранилищу, которое наносит урон здоровью людей или даже приводит к их гибели, а также причиняет материальный ущерб.	наводнение √
Горный поток, состоящий из смеси воды и рыхлообломочной горной породы (грязи, камней).	сель +
Ветер разрушительной силы и значительной продолжительности, скорость которого превышает 32 м/с.	ураган +
Покрытие окружающей местности слоем воды, заливающим дворы, улицы населенных пунктов и нижние этажи зданий	затопления +
Сильный маломасштабный атмосферный вихрь, в котором воздух вращается со скоростью до 100 м/с, обладающий большой разрушительной силой.	смерч +
Наводнения, вызванные весенним таянием снега на равнинах или таянием снега и ледников в горах	половодья +
Отрыв и катастрофическое падение больших масс горных пород, их опрокидывание, дробление и скатывание на крутых и обрывистых склонах.	обвалы +
Наводнения, вызванные большим сопротивлением водному потоку, возникающим при скоплении ледового материала в сужениях или излучинах реки во время ледостава	зажор +

Оценочные баллы: *максимально –* ***10 баллов****;*
фактически набранные баллы за задание - 10

Задание 6. Заполните схему.



Оценочные баллы: *максимально –* ***10 баллов****;*
фактически набранные баллы за задание - _____ .

Задание 7. Выполните задание заполнив схему. (А) Указав физическое качество человека в зависимости от их характеристик. (Б) Перечислите, какие процессы в организме человека обеспечивают регулярное закаливание.

(А)

Способность человека преодолевать внешние сопротивление или противодействовать ему благодаря мышечным усилиям →	гибкость +
Регулярность →	закаливание
Постепенность →	закаливание
→	

(Б)



Оценочные баллы: *максимально –* ***10 баллов****;*
фактически набранные баллы за задание - 5

Баллы за задания Теоретического блока								
№ задания	1	2	3	4	5	6	7	
Кол-во баллов	3	3	2	2	10	–	5	

Максимальная оценка за полностью правильно выполненный Теоретический блок – *49 баллов*;
фактически набранные баллы за Теоретический блок - 25

*Подпись председателя жюри*_____

ЗАДАНИЯ ТЕОРЕТИЧЕСКОГО ТУРА (Блок тестирования)

№ п/п	Тестовые задания	Макс. балл	Кол-во набранных баллов
1	2	3	4
	Определите один правильный ответ		
1.	***При оповещении об аварии на радиационноопасном объекте необходимо действовать в указанной последовательности:*** (а) включить радио и выслушать сообщение, выключить газ, электричество, взять необходимые вещи, продуты питания, документы, надеть средства защиты, вывесить на двери табличку «В квартире жильцов нет» и следовать на сборный эвакопункт; б) включить радио и выслушать сообщение, выключить газ, электричество, освободить холодильник от продуктов, взять необходимые вещи, документы, надеть средства защиты, и следовать на сборный эвакопункт; в) включить радио и выслушать сообщение, , освободить холодильник от продуктов и вынести скоропортящиеся продукты на мусор, выключить газ, электричество, взять необходимые вещи, документы, надеть средства защиты, вывесить на двери табличку «В квартире жильцов нет» и следовать на сборный эвакопункт;	1	1
2.	**Тип селевых потоков, который может возникнуть при строительстве ГЭС, взрывных и сельскохозяйственных работ:** А) Зональный Б) Геологический (В) Антропогенный Г) Региональный	1	1
3.	***Катастрофическое природное явление, которое может вызвать многочисленные человеческие жертвы и значительный материальный ущерб, называется _____ бедствием.*** а) национальным; (б) стихийным; в) экологическим; г) биологическим.	1	1
4.	**Затор – это...** (А) Загромождение русла реки во время ледохода Б) Подъём уровня воды под действием ветра В) Скопление глубинных осколков льда в реке под неподвижным ледяным покровом Г) Стихийное бедствие, вызванное сильным ветром, обильными осадками	1	1
5.	**ЧС, имеющая биологический характер** А) Землетрясение (Б) Эпизоотия В) Сель Г) Гололедица	1	1

6.	***Радиоактивные вещества:*** а) моментально распространяются в атмосфере независимо от скорости и направления ветра, стелются по земле на небольшой высоте; б) имеют специфический запах сероводорода, интенсивность которого не зависит от внешних факторов, а определяется периодом полураспада данного вещества; (в) не имеют запаха, цвета, вкусовых качеств, не могут быть уничтожены химическим или каким-либо другим способом, способны вызвать поражение на расстоянии от источника.	1	1
7.	**Сила урагана измеряется по шкале:** А) Цельсия Б) Рихтера (В) Бофорта Г) Форенгейта	1	1
8.	**Назовите заболевание и возбудителя, его вызывающего при попадании в рану земли (почвы) ,выберите ответ:** А) холера, холерный вибрион Б) грипп, вирус гриппа В) СПИД, вирус иммунодефицита (Г) столбняк, столбнячная палочка	1	1
9.	***Какие группы опасных природных явлений наиболее распространены в Российской Федерации?*** а) космические, подземные, надземные, вулканические, снежные; б) чрезвычайные, местные, ситуационные, ландшафтные, биологические; (в) геологические, метеорологические, гидрологические, природные; г) океанические, атмосферные, динамические, визуальные, медицинские.	1	1
10	**В каких местах наиболее вероятны и опасны камнепады?** А) На горных пастбищах Б) В местах обитания диких животных (В) На автомобильных дорогах, проложенных в крутосклонных ущельях Г) На морских побережьях	1	1
11	**Дополните предложение: «Затопление это – ... »** А) Овраг, заполненный водой Б) Яма, заполненная водой (В) Покрытие окружающей местности слоем воды Г) Проникновение воды в подвалы зданий через канализационную сеть	1	1
12	Какой из перечисленных процессов не соответствует условиям горения? А) Наличие горючего вещества Б) Наличие окислителя (В) Наличие условий для теплообмена Г) Наличие источника воспламенения	1	1
	Определите все правильные ответы		
13	***При обнаружении в лесу огня, распространяющегося по кустарнику и деревьям, на расстоянии 100 – 150 метров от вас:*** а) побежите по направлению распространения огня; (б) определите направление распространения огня; в) станете кричать, звать на помощь; (г) определите направление ветра; (д) быстро сориентируетесь и направитесь в безопасное место под прямым углом к направлению распространения огня в наветренную сторону; е) попробуете ветками или подручными средствами сбить огонь; ж) найдете ближайший водоем и в нем дождетесь, когда пройдет огонь; (з) как можно быстрее доберетесь до ближайшего поселка и сообщите о пожаре взрослым.	4	4
14	***Укажите точки прижатия артерии для временной остановки кровотечения методом пальцевого прижатия:*** а) там, где артерия проходит в толще мышечной ткани; (б) там, где артерия проходит поверхностно; в) в ране; (г) там, где артерия проходит над костью; д) в любой точке по ходу артерии.	2	2
15	***Укажите приёмы восстановления проходимости дыхательных путей:*** а) приподнимание головы; (б) запрокидывание головы; (в) выдвижение нижней челюсти; г) использование лицевой маски; д) использование пластиковой плёнки с клапаном; одностороннего движения воздуха.	2	2
Количество баллов		***max* 20**	

Оценочные баллы: *максимально –* ***20 баллов;***
фактически набранные баллы за Блок тестирования - 20.

Подпись председателя жюри _____